力だめし⑳解答

【１】線対称･･･**A**，**D**，**O**　　点対称･･･**N**，**O**

【２】（１）　　（２）

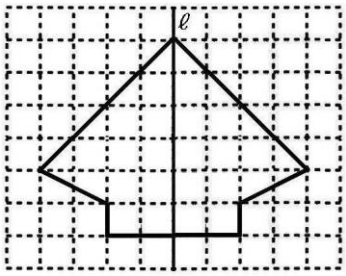

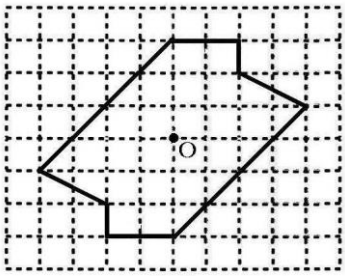

【３】（１）台形 HGLK　　（２）台形 IHCD，BC

（３）台形 GHCF，180°　　（４）BC を対称軸として対称移動させて台形 EBCF に重ね合わせる。その次に，平行移動させて台形 HIJK に重ね合わせる。

【４】

直線ℓ上に点 P をとり，P を通りℓに垂直な直線を作図し，m との交点を Q とする。次に，線分 PQ の垂直二等分線を作図し，PQ との交点を O とする。

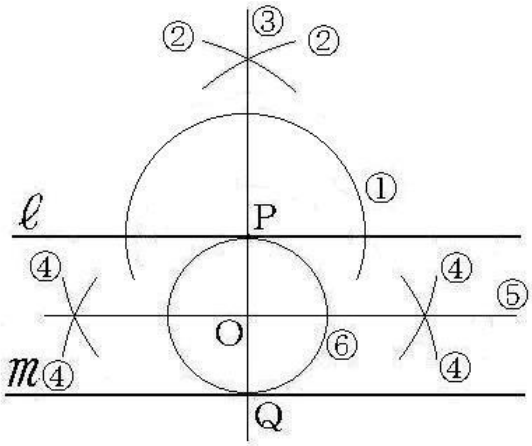

中心を O，半径を OP とする円を作図する。